臺東縣110學年度八年級期末共同評量社會科試題

A卷

※請先確認你的答案卡上個人資料正確無誤，並聽從監試教師的指示才開始作答。本試題共4頁。

選擇題：共50題，每題2分

1. 「中國某地區的一月均溫大約是 8℃，七到九月的月均溫均在 20℃以上；年降水量在 800 mm左右，六至九月是主要雨季。」由上文判斷，該地區應為何種氣候？
(A)溫帶季風氣候　(B)熱帶季風氣候
(C)副熱帶季風氣候　(D)溫帶草原氣候

2. 阿豪閱讀一篇遊記，文章記載一段話：「這裡的平均海拔高度，比玉山還要高，因此夏天到這裡遊玩會非常涼爽！但要注意高山症所引發的身體不適，……。」由上述可推測，遊記的敘述地點位於圖(一)中何處？

圖(一)

(A)甲　(B)乙　(C)丙　(D)丁

3. 表(一)是中國 2021 年人口各項數據，依據此表判斷，中國應執行哪一項政策來解決當前人口問題？
(A)鼓勵生育第三胎，避免人口持續負成長
(B)創造就業機會，改善失業率過高的難題
(C)提升醫療水平，以降低高齡人口死亡率
(D)倡導男女平等，改善更失衡的性別比例

表(一)

總人口數 14.13億			
出生人口數	1062萬	死亡人口數	1014萬
60歲以上人口比例	18.7%	15~59歲人口比例	63.4%
總人口性別比	104.9	新生兒性別比	111.3

4. 圖(二)是中國 1992~2015 年的對外投資金額折線圖，依據此圖，我們可以推論出中國的經濟呈現下列何種轉變？
(A)技術密集型產業轉型為勞力密集型產業
(B)工業產品以外銷為主，國內消費能力弱
(C)貿易金額增加，對世界影響力大幅提高
(D)西部人民所得提升，區域發展差距縮小

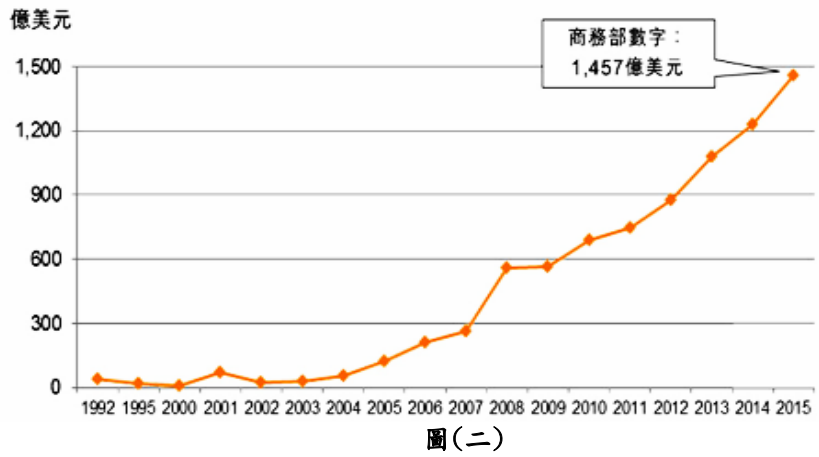

圖(二)

5. 近年來中國企業逐漸在全球經貿中扮演重要的角色，並積極採用合併與收購的方式取得外國企業的所有權，如：瑞典的 VOLVO 汽車、美國的 IBM 電腦等品牌。以中國的工業生產條件判斷，企業使用上述手段，其最主要目的為何？
(A)獲得大量便宜勞工
(B)擴展國內市場規模
(C)促進產業均衡發展
(D)快速取得專業技術

6. 自十六世紀新航路發現以來，亞洲商品風靡歐洲市場，歐洲商人利用在美洲開採的「**某項資源**」作為交易媒介，用以購買中國的絲綢、瓷器、茶葉等商品。請問上述自美洲開採的資源最有可能為下列何者？
(A)花生　(B)玉米
(C)黃金　(D)白銀

7. 歷史博物館近期推出「歷史科技體驗活動」，透過虛擬實境(VR)技術，重現過去歷史事件或遺跡，讓民眾感受身歷其境的效果。志玲戴上了館方提供的 VR 眼鏡後，看到一名男子隻身站在大街上阻止坦克車前進，如圖(三)。志玲在 VR 眼鏡中所看到的該場景旁的抗議標語，最有可能是下列何者？


圖(三)

(A)外爭主權，內除國賊
(B)革命無罪，造反有理
(C)保密防諜，人人有責
(D)民主，我們共同理想

8. 老師在黑板上展現封建制和郡縣制的示意圖，如圖(四)，讓班上同學比較這兩種制度的優缺點，下列何者的論述較為正確？
(A)郡縣長官由諸侯世襲擔任，即使皇帝也無權過問
(B)封建制透過貴族身分的世襲與分封確保統治秩序
(C)秦統一天下後，改採封建制度，可藉此屏障宗室
(D)商周時期由皇帝直接任命官員，達到集權的目標

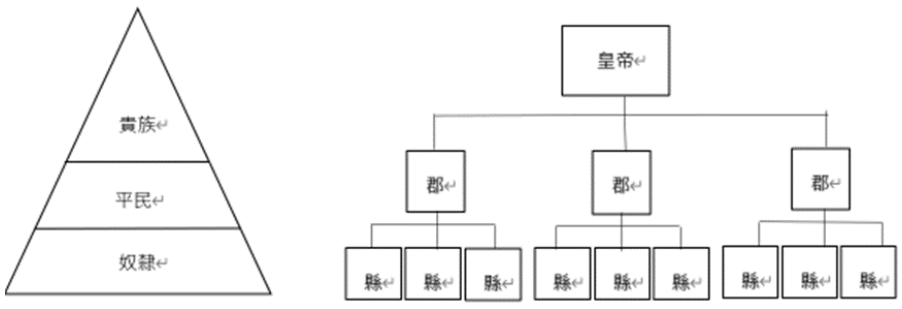

圖(四)

9. 某文提到:「說起此人，你或許會一秒想到《二十一條要求》、洪憲帝制、賣國賊、獨裁者等字眼，但 100 多年前的《二十一條要求》真像歷史課本寫的，是他自願要賣國嗎？所謂「五九國恥日」，其實是他最沉痛的懊悔與反省，即便用盡四大策略談判，還是不得不簽下辱國條約！」。請問這位歷史人物為下列何人？
(A)溥儀　(B)李鴻章　(C)袁世凱　(D)孫中山

10. 「為了引起中國人的注意，他學習漢語，研讀儒家經典，把自己打扮得像一個中國的讀書人，並與中國官員有很多交流機會，將自己所知的西方科學，特別是數學、天文學和地圖學，透過書籍翻譯，教給中國的知識分子，同時也藉機傳教。為了順利推動傳教，他說信奉天主教的中國信徒仍然可以繼續拜祖先。」請問文中的「他」是下列何人？
(A)馬偕　(B)利瑪竇　(C)馬雅各　(D)徐光啟

11. 下列哪一個機關可以對行政院院長提出不信任案，對正副總統提出彈劾案？
(A)監察院　(B)考試院　(C)立法院　(D)司法院

翻頁作答

12. 圖(五)是我國廣義法律位階示意圖，其中低位階部分具有什麼特性？
(A)由行政機關制定
(B)由總統公布施行
(C)多為原則性規範
(D)經公民投票修正

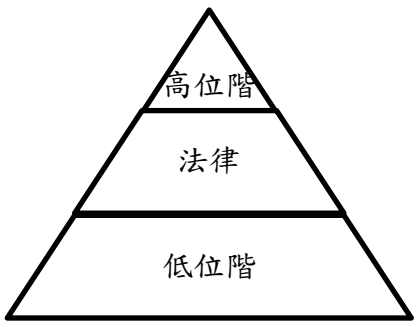

圖(五)

13.「根據大法官釋字第 748 號解釋，《民法》關於婚姻的規定排除了相同性別，這與《憲法》保障的人民婚姻自由及人民平等權相違背，因此有關機關應在兩年內，依大法官解釋的意旨完成相關法律修正或制定。」《民法》被宣布違憲後必須修正，彰顯了《憲法》的何種特性?
(A)固定性　(B)最高性
(C)原則性　(D)普遍性

14. 表(二)為我國《民法》修正前後的對照。請判斷《民法》修改後之條文內容，乃為落實憲法所保障人民的哪種基本權利？
(A)平等權　(B)自由權
(C)受益權　(D)參政權

表(二)

修改前	修改後
妻以其本姓冠以夫姓	夫妻各保有其本姓
妻以夫之住所為住所	雙方協議約定之
子女以父姓為其本姓	父母以書面約定之

15. 近年來，岩灣技能訓練所積極針對受刑人開辦各類教育訓練班，例如汽車板金班、室內配線班等，並提供丙級技術士檢定。以上例子說明我國對犯罪者實施刑罰，注重下面哪一個目的？
(A)處罰犯罪行為人伸張正義
(B)作為社會的借鑑預防犯罪
(C)矯正犯罪行為人重返社會
(D)宣揚政府的德政提升形象

16. 一則 2021 年新聞標題「北京吃土：京師錯愕的 10 年最強沙塵暴之亂」，中國從 1976 年至今，已經有超過 1300 場沙塵暴，逼走近 35 萬人遠走他鄉，此沙塵暴源自中國乾燥氣候區的過度放牧或開發所導致。請問此地區最可能位於圖(六)何處？
(A)甲
(B)乙
(C)丙
(D)丁

圖(六)

17.「豐力富頂極純濃奶粉，來自天然純淨無汙染的紐西蘭」是大家耳熟能詳的廣告詞。該國的牧場多分布於水草豐美處，且以高品質的乳製品在世界佔有一席之地，其國家境內乳牛數量是人口的兩倍多！」該國牧場分布位置與下列哪項因素最具有關聯性？
(A)居西風的迎風面
(B)南島的冰河地形
(C)環海的地理位置
(D)較長的日照時間

18. 過去南極洲因難以生長植物，長年白雪茫茫，近年卻逐漸出現苔癬的蹤跡，綠色植物面積漸漸擴大，造成此現象的原因，最可能是下列何者？
(A)南極的環境保育有成
(B)全球的氣溫逐漸上升
(C)南極的地表逐漸抬升
(D)年降雨量較以往充沛

19. 為了解決全球氣候變遷所帶來的衝擊，聯合國多次召開氣候會議，並簽署「京都議定書」和「巴黎協議」，希望各國控制碳排放量，減緩全球暖化。這些氣候會議對於減緩哪一自然環境災害事件**沒有**直接關聯？
(A)日本發生大地震引發海嘯
(B)西班牙熱浪來襲多人熱死
(C)澳大利亞珊瑚白化魚群減少
(D)大洋洲多數島國將被海水淹沒

20.「近年來，日本與南韓政府推動智慧型農業的相關政策，導入高科技技術至農業生產過程，並利用人工智慧、大數據分析及資訊通訊科技等技術，提高作物產量外，也能解決兩國的農業生產困境。」文中提及到的困境最有可能為下列何者？
(A)農業資金取得困難
(B)農業勞動人口不足
(C)人民飲食習慣改變
(D)氣候異常產量下降

21. 民初，中國推行新文化運動，主要是針對思想及文化的改造，請問下列哪一選項是新文化運動的內容？
(A)推廣文言文的小說
(B)傳播儒家思想觀念
(C)介紹西方文化內涵
(D)固守傳統思想美德

22. 韓劇「五月的青春」以南韓光州民主化運動為時代背景，描述當年南韓為了避免北韓藉機南侵而實施戒嚴，禁止任何政治示威遊行活動、禁止一般民眾午夜後外出。劇中女主角因為父親是共產黨成員而遭限制出境。劇中女主角的遭遇，最可能反應出當時哪一個國際局勢？
(A)中蘇分裂　(B)蘇聯解體
(C)中美斷交　(D)美蘇冷戰

23. 某外國學者認為：「當中國人實行一種激烈的禁煙運動而使危機加劇的時候，戰爭果然就來到了。」上述背景下引發的戰爭對當時中國造成什麼影響?
(A)經此衝擊，中國開始全面西化
(B)清帝國與外國為爭奪藩屬開戰
(C)立憲派人士失望轉而支持革命
(D)改變中國原有的朝貢貿易體制

24. 這個國家原是法國的殖民地，冷戰期間，因內部一場戰爭，成為共產國家。隨著 1991 年蘇聯解體，冷戰結束，各國重新開展新的關係，東協接受其加入組織，推動東亞共同體的實現。請問這個國家指的是下列何者？
(A)中國　(B)日本
(C)韓國　(D)越南

25.《國民革命歌》歌詞如下：「打倒列強，打倒列強，除軍閥，除軍閥！努力國民革命，努力國民革命，齊奮鬥，齊奮鬥！」，在某個歷史時期，這首歌還成為暫時的國歌。這個歷史時期最可能是下列哪個階段？
(A)洪憲帝制　(B)北伐時期
(C)十年建設　(D)國共內戰

26. 在《張釋之執法》一文中，主張法律是天子和天下人應該共同遵守的，如果皇帝擅自加重，法律就不會被人民相信了。下列何者與文章的概念**不同**？
(A)政府必須依法行政　(B)法律之前人人平等
(C)犯罪科刑遵守法律　(D)主權在民權力分立

27. 網路詐騙行為猖獗，違法者應負起刑事責任，下列何者屬之？
(A)拘留　(B)罰鍰
(C)吊銷執照　(D)有期徒刑

翻頁作答

28. 民眾向臺東地檢署舉報有人涉嫌偽造信用卡，經過甲偵查後提起公訴。請問甲為何種職務?
(A)法官　(B)律師
(C)檢察官　(D)書記官

29. 圖(七)是老師要求同學分組進行討論的案例，下列哪一類法律是討論的主題？

1、隨便亂丟垃圾的處罰
2、製造噪音擾鄰的責任
3、違反交通規則的後果
4、申請低收入戶的規定

圖(七)

(A)《憲法》　(B)《刑法》
(C)行政法　(D)訴訟法

30. 讀國中的阿豪施用 k 他命，法官為了讓他改過自新，依法實施保護處分，請問下列說明何者**錯誤**？
(A)依據《少年事件處理法》
(B)由少年法院依法審理
(C)性質為少年保護事件
(D)按情節輕重處以拘役

31. 「根據統計，韓劇《冬季戀歌》播出後，隔年彩妝在亞洲出口規模增加 50%，韓國旅遊觀光客量成長了 15%；《大長今》播出後，隔年韓國人參及冬蟲夏草銷量增加 10%至 20%。」從上述報導可以推論出韓國產業發展具有哪項特色？
(A)政府大力推動加工出口產業
(B)中小企業貿易總額逐年提升
(C)智慧型農業是韓國發展主力
(D)文化產業帶動其他產業發展

32. 朝鮮半島傳統建築設計常與當地自然環境息息相關，多為因應其自然條件而發展出獨特的生活方式。圖(八)為朝鮮半島常見的傳統韓屋設施「溫突」，其設計原理類似中國北方的「炕」，請問其主要功能為下列何者？

圖(八)

(A)烹飪料理
(B)取暖驅寒
(C)驅除蚊蟲
(D)排除濕氣

33. 表(三)是南北韓 2020 年貿易進出口額比較表（單位：億美元）就兩國自然環境、政治、經濟背景判斷，下列何者最可能是南韓貿易數據優於北韓的原因？
(A)以計畫經濟扶植大企業
(B)太白山脈礦產資源豐富
(C)致力於開發高科技產業
(D)廉價勞力吸引外國投資

表(三)

北韓		南韓	
出口	進口	出口	進口
0.89	7.74	5128.5	4672.3

34. 「2016 年熱浪侵襲印度數週，創下 51°C 的破紀錄高溫。13 省農作物枯萎，數百人死亡，數以萬計小農不得不離開自己的土地，進入城市求生。城市乾熱無風，許多柏油路面甚至熱到融化變形，……。」住在臺灣的阿德在下列哪一節日到印度旅遊最可能遇到上述景觀？
(A)元旦　(B)清明節　(C)中秋節　(D)聖誕節

35. 虔誠的伊斯蘭教徒在生活中會恪守古蘭經的教義作為生活依歸，因此穆斯林在許多生活面向都呈現獨特的行為特徵。「五功」即為教義中最典型的基本原則，而五功當中的「朝」，指的是一生至少一次至聖地朝聖。請問此聖地指的為下列哪個城市？
(A)麥加　(B)梵諦岡　(C)耶路撒冷　(D)聖地亞哥

36. 此物品在宋元時期已廣泛應用，並透過蒙古西征傳入歐洲，影響世界歷史的發展。請問此物品應是下列何者？
(A)火藥　(B)指南針　(C)印刷術　(D)造紙術

37. 圖(九)為日本在占領中國東北建立「滿洲國」期間所繪製的宣傳畫。下列哪一事件與此圖背景最相關？
(A)九一八事變
(B)天安門事變
(C)盧溝橋事變
(D)珍珠港事變



圖(九)

38. 某位晚清女性，她出身書香世家，因為丈夫的工作輾轉來到北京，吸收新思潮後的她從此不一樣了，租借區的新生活在物質、思維上都帶給她不同的感受。請問下列敘述何者可能是該女性當時的生活情景？
(A)雖然想精進自己多讀書，但苦無女子學校
(B)婚姻強調父母之命媒妁之言並以家族為重
(C)在報刊雜誌上看到天足、放寬腳帶的宣傳
(D)響應女子無才便是德與男尊女卑的新觀念

39. 潤東是生活在十九世紀後期的上海居民，在他的日常生活中，**不可能**出現下列何種情形？
(A)打電話約朋友吃西餐、喝咖啡
(B)住西式洋房，有電燈、自來水
(C)美國朋友來訪只能從廣州登陸
(D)閱讀報刊雜誌了解西方新思潮

40. 這場戰爭的導火線是朝鮮境內的東學黨事件，戰爭後雙方簽下條約，清朝承認朝鮮獨立、割讓遼東半島和臺灣、澎湖，外加鉅額賠償。清朝認為戰爭失敗是國家制度出現問題，因此進行改革，請問上述是指哪一個改革?
(A)自強運動　(B)戊戌變法
(C)立憲運動　(D)庚子後新政

41. 2003 年以前，《刑法》並沒有妨害電腦使用罪的規定，所以當時散播電腦病毒雖然不道德，卻不能用《刑法》來處罰。上述顯現哪一項重要的法律原則？
(A)主權在民　(B)依法行政
(C)罪刑法定　(D)權力分立

42. 依據《憲法》規定，立法院有政府官員任命同意權，但是下列哪一項**不需要**立法院同意？
(A)行政院院長
(B)考試院院長
(C)監察院院長
(D)司法院大法官

43. 在臺東縣省道路段發生汽車撞到牛導致死傷的不幸事件。為避免再度憾事發生，制定了《臺東縣放牧飼養家畜管理自治條例》以管理縣內家畜，落實飼主責任，以維護道路用路人安全，並規定「距離省道二百公尺內，不得飼養牛隻」。下列何者最符合該自治條例立法目的？
(A)落實憲法保障人身自由
(B)有效減少法律訴訟案件
(C)代替刑法追究飼主責任
(D)依法行政保障人民安全

44. 國內經濟因新冠肺炎大受影響。為了讓民眾能夠正常生活，行政院特別提出各種紓困方案預算案，但這些預算案皆須經過民意機關通過才得以運用，不能由行政院自己決定。此政府運作機制與下列何者最有關連？
(A)分權制衡
(B)地方自治
(C)依法行政
(D)均權制度

翻頁作答

45. 就讀國二的阿男違規騎乘家裡的機車到校，途中與人發生車禍，導致對方受傷。下列有關敘述何者正確？
(A)違規騎車部分處以罰金
(B)過失傷人處以褫奪公權
(C)阿男的父母連帶處拘役
(D)案件經由少年法院審理

46. 在西亞政治局勢長期動亂不安，近代西方國家又因石油利益而介入西亞政治，當西亞成為國際衝突的焦點後，可能出現下列哪一現象？
(A)全球石油價格與產量波動較為劇烈
(B)每年前往西亞旅遊的人數穩定成長
(C)西亞的人民更樂於接受歐美的文化
(D)西亞的難民經由波斯灣移動至歐洲

47. 小安整理西亞與北非的重點時，發現兩個區域有許多的共同點，然而下列哪一項他所整理的筆記，其觀念是**錯誤**的？
(A)地形：受到板塊擠壓影響，大多數為山地地形
(B)氣候：副熱帶高壓籠罩，主要為熱帶沙漠氣候
(C)宗教：地理位置相近，多數國家信仰伊斯蘭教
(D)衝突：因族群眾多繁雜，使區域和平難以達成

48. 15 世紀末，歐洲商人陸續東來與中國進行貿易，形成大航海時代。關於明清時期中西文化交流的描述，下列何者正確？
(A)當時的臺灣正處於日治時期閉關自守
(B)鄭和下西洋使明朝聲威遠播有助貿易
(C)歐洲人到亞洲進行貿易大多依賴倭寇
(D)貿易的方式採取平等互惠的朝貢體制

49. 兩位學者在歷史相關的節目中，發表如下意見：
甲學者：「為牽制匈奴，積極派遣使者與西域國家聯絡。」
乙學者：「自中國出發，經敦煌、西域，再到中亞和西亞，最遠至大秦（羅馬帝國）。不僅從東西南北拓展開來，還隨著時代的發展，範圍越來越大，串連不同文化圈。」根據上述談話內容，請問：兩位學者主要討論下列哪個主題?
(A)漢朝的絲綢之路　　(B)蒙古的西征路線
(C)明朝的朝貢貿易　　(D)晚清的西力入侵

50. 圖(十)是高雄市政府因應新冠肺炎宣導配戴口罩的海報。下列敘述何者正確？
(A)配戴口罩的措施限制了人民的平等權
(B)不配合配戴口罩的處罰屬於刑事責任
(C)政府裁罰違規民眾屬於地方自治工作
(D)民眾不服裁罰可向市政府提行政訴訟

圖(十)

試題結束